Quaderno di Matematica

CLASSE PRIMA- SCUOLA PRIMARIA

4° quaderno

1

primaria.org

MATEMATICA
PILLOLE DI CONOSCENZA

Primaria.org

Benvenuti su "**Primaria - Pillole di Conoscenza**", un progetto che distribuisce contenuti informativi, educativi e scientifici per studenti e appassionati di tutte le età.

Esploriamo una vasta gamma di argomenti, distribuiti attraverso pdf, video e corsi di formazione.

Il nostro obiettivo è rendere accessibili e comprensibili argomenti complessi, rispondendo a domande rilevanti e stimolando la curiosità.

L'idea delle "Pillole di Conoscenza" si basa sull'apprendimento di concetti chiave, distribuiti attraverso contenuti condensati, ma ricchi di significato e informazioni preziose, permettendo di acquisire nuove informazioni in modo rapido ed efficiente.

Che tu sia uno studente, un insegnante o semplicemente un appassionato di conoscenza, qui troverai risorse preziose per ampliare il tuo sapere.

Unisciti a noi in questo viaggio di scoperta e crescita personale, esplorando temi rilevanti e affascinanti.

Primaria - Pills of knowledge

Welcome to "Primaria - Pillole di Conoscenza," the YouTube channel that offers informative and scientific content for students and enthusiasts of a...

YouTube

roblema

el pollaio di nonno
obia ci sono 6 galline
e 5 tacchini.
Quanti animali ci sono
n tutto?

Risolvo

Dati
6 galline
5 tacchini
animali in tutto
+5=11

primaria.org

In colonna e sull'baco

da u · 11 → 1 da · l · 1 u

dd	u	
	6	+
	5	=
1	1	

Risposta ~~in~~

In tutto ci sono 11 animali.

primaria.org

Bari: 22 Marzo

Oggi è martedì

Il numero 13

13

13	13	13	13	13
13	13	13	13	13
13	13	13	13	13
13	13	13	13	13
13	13	13	13	13
13	13	13	13	13
13	13	13	13	13

primaria.org

SCHEDA N. NOME ..... CLASSE..... DATA .....

IL NUMERO 13

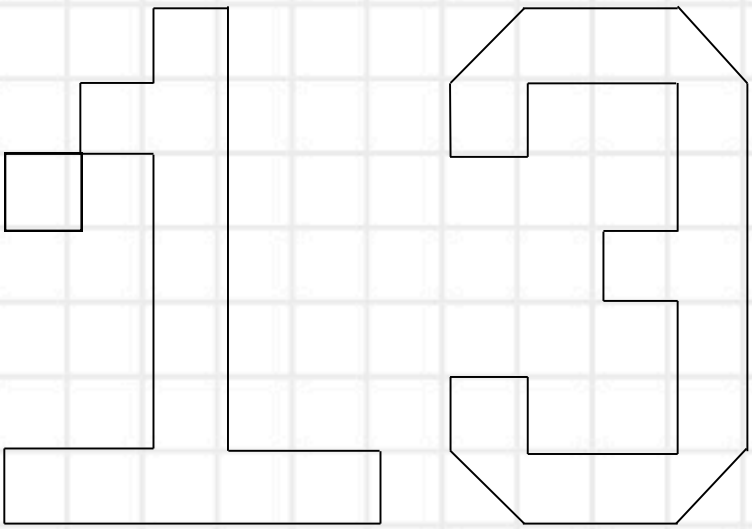

Forma il numero 13

13 tredici

13 tredici

13 tredici

13 tredici

13 tredici

13 tredici

13 tredici

13 tredici

13 tredici

13 tredici

primaria.org

Bari · 23 · marzo

Oggi · è · mercoledì

Forma · la · decina · e · po

registra

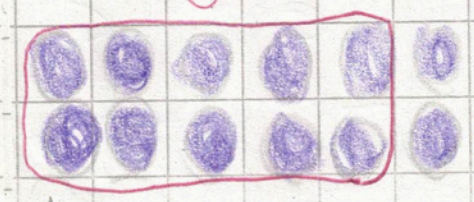

da	u
1	2

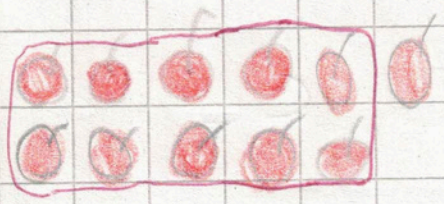

da	u
1	1

da	u
0	8



da	u
1	3

primaria.org

da	u
1	0

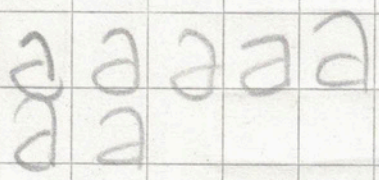

da	u
0	7

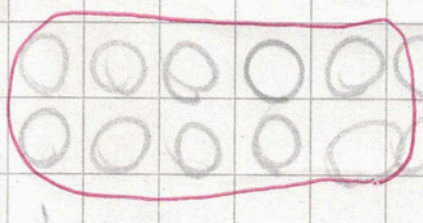

da	u
1	4

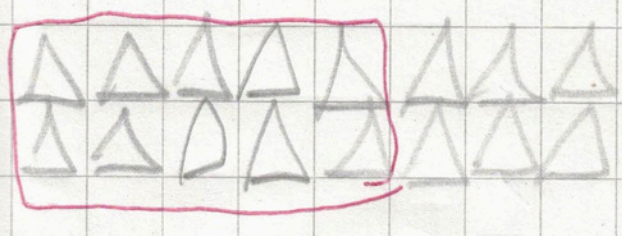

da	u
1	6

primaria.org

Calcola e scrivi il risultato

3 + 1 + 5 = 9

0 + 4 + 4 = 8

3 + 4 + 1 = 8

2 + 4 + 3 = 9

4 + 0 + 2 = 6

1 + 1 + 6 = 8

6 + 3 + 2 = 11

8 + 3 + 1 = 12

4 + 5 + 2 = 11

5 + 2 + 6 = 13

primaria.org

Sottrazioni in tabella

—	2	3	4
9	7	6	5
5	3	2	1
6	4	3	2

—	5	2	7
8	3	6	1
7	2	5	0
9	4	7	2

—	8	7	0
13	5	6	13
10	2	3	10
9	1	2	9

—	9	1	3
12	3	11	9
11	2	10	8
10	1	9	7

primaria.org

SCHEDA N. NOME ..... CLASSE..... DATA .....

SOTTRAZIONI IN TABELLA

Per casa
Completa scrivendo i
Precedente e il
Successivo

Precedente		Successivo
3	4	5
7	8	9
9	10	11
8	9	10
6	7	8
0	1	2
5	6	7
4	5	6
11	12	13

primaria.org

Addizioni e Sottrazioni

Esegui con le dita e quando serve aiutati con i colori

6 + 4 = 10

3 + 9 = 12

1 + 10 = 11

4 + 4 = 8

4 + 8 = 12

7 + 6 = 13

2 + 3 = 5

7 + 5 = 12

10 - 6 = 4

12 - 4 = 8

9 - 8 = 1

10 - 2 = 8

7 - 6 = 1

13 - 0 = 13

11 - 5 = 6

13 - 3 = 10

Bravo

primaria.org

Bari 28 Marzo

Oggi è lunedì

Il numero 14



14	14	14	14	14
14	14	14	14	14
14	14	14	14	14
14	14	14	14	14
14	14	14	14	14
14	14	14	14	14
14	14	14	14	14

primaria.org

SCHEDA N. NOME ..... CLASSE..... DATA .....

IL NUMERO 14

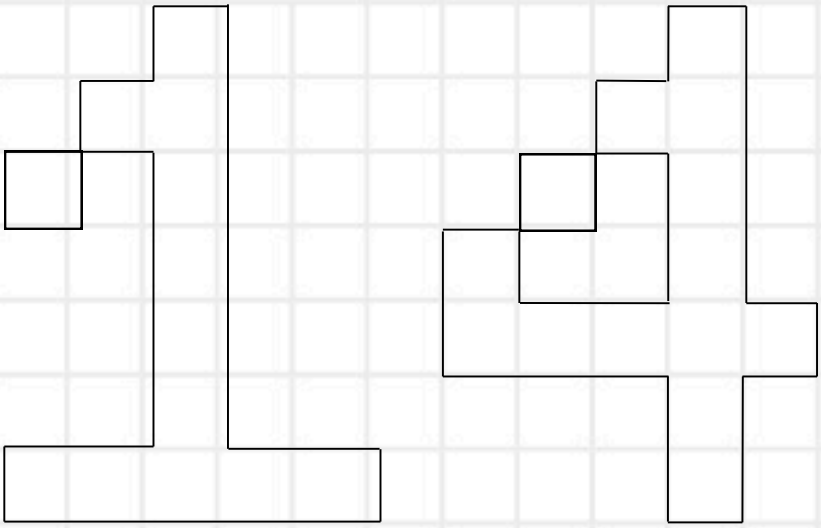

Formo il numero 14

14 14 14

14 14 14

14 14 14

14 14 14

14 14 14

14 14 14

14 14 14

14 14 14

14 14 14

primaria.org

Scrivo in lettere

14 quattordici

14 quattordici

14 quattordici

14 quattordici

14 quattordici

14 quattordici

14 quattordici

14 quattordici

14 quattordici

14 quattordici

14 quattordici

14 quattordici

14 quattordici

14 quattordici

ok!

primaria.org

SCHEDA N. NOME ..... CLASSE..... DATA .....

Raggruppa gli elementi per 10 e rappresenta il numero ottenuto sull'abaco.

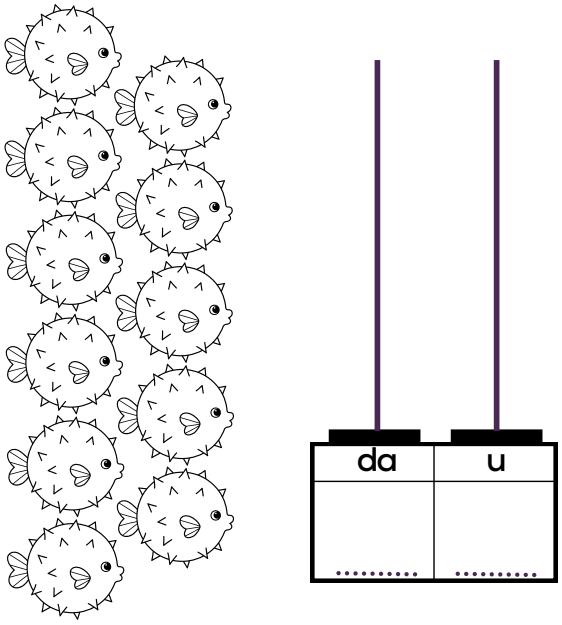

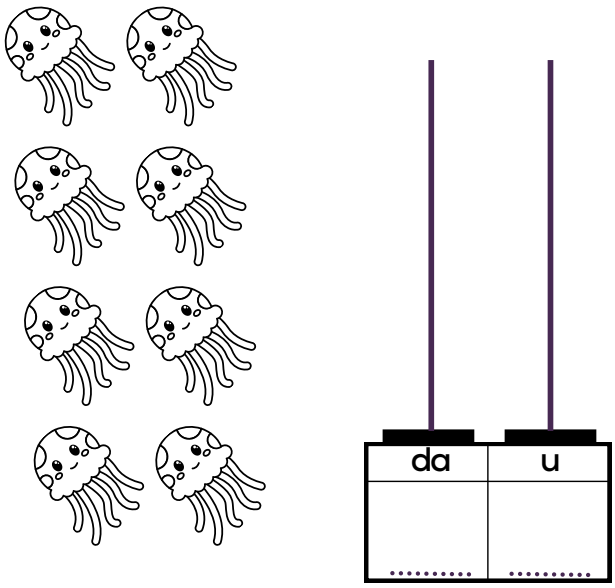

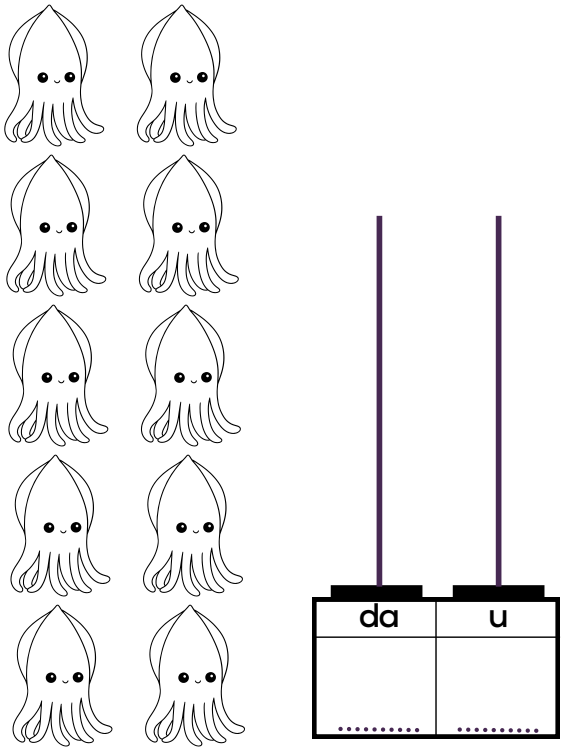

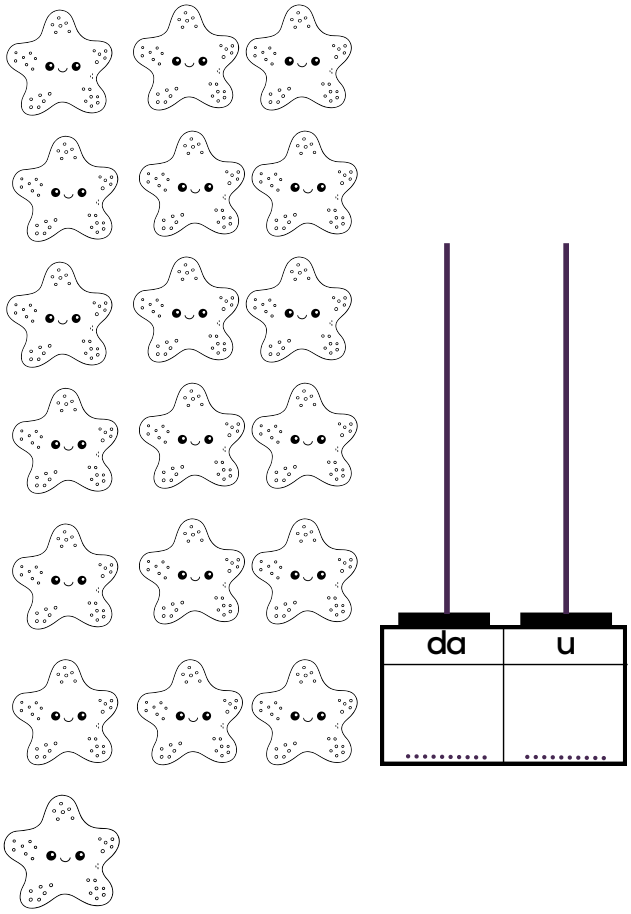

SCHEDA N. NOME ..... CLASSE..... DATA .....

Raggruppa gli elementi per 10 e rappresenta il numero ottenuto sull'abaco.

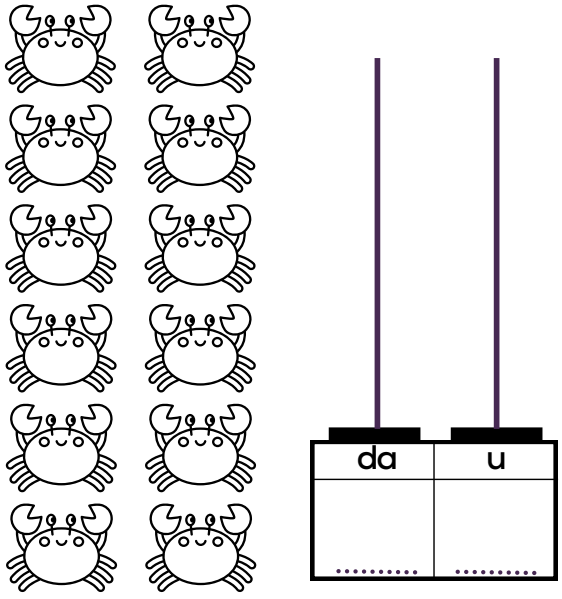

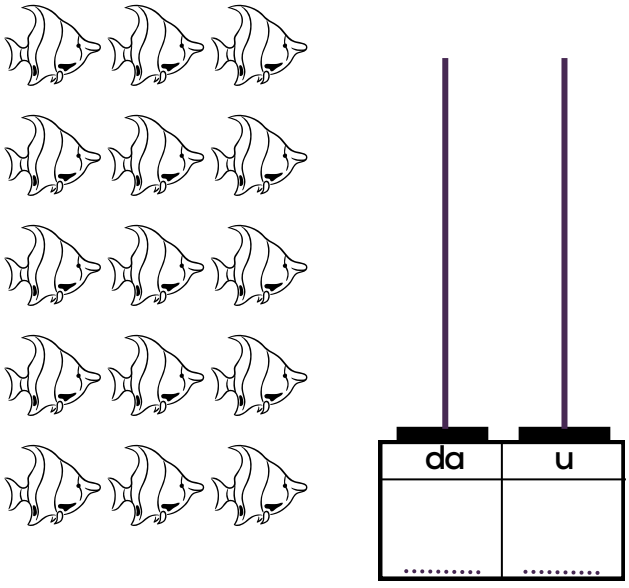

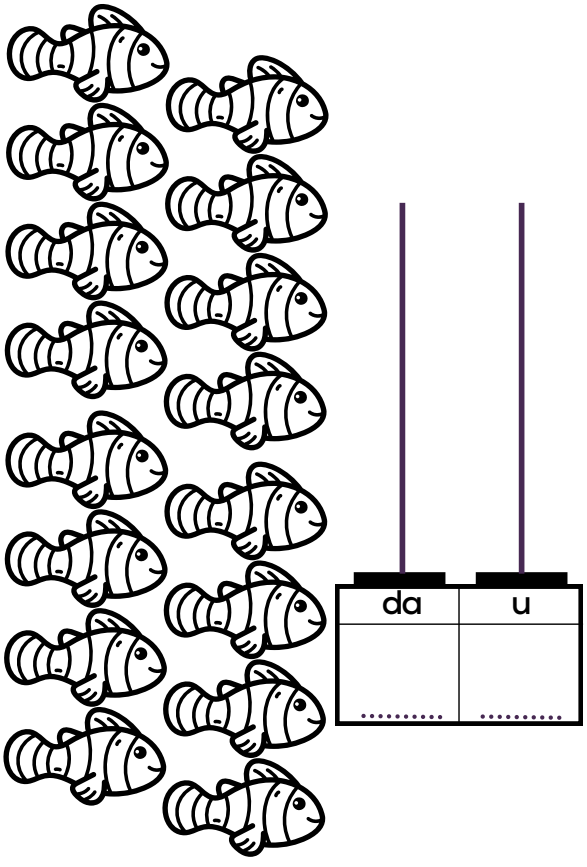

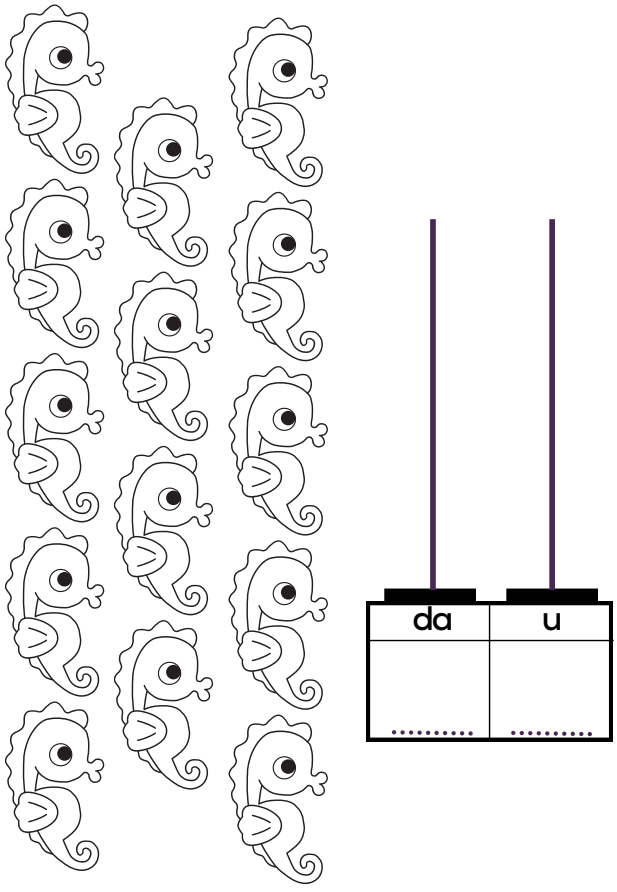

Raggruppa per 10 e rappresenta sull'abaco

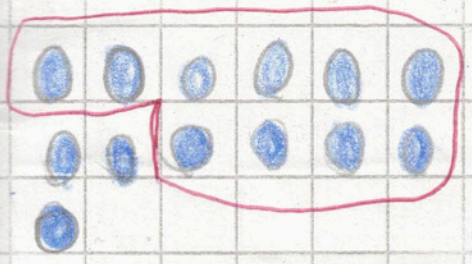

da	u
1	3

da	u
1	4

da	u
	9



da	u
1	4

primaria.org

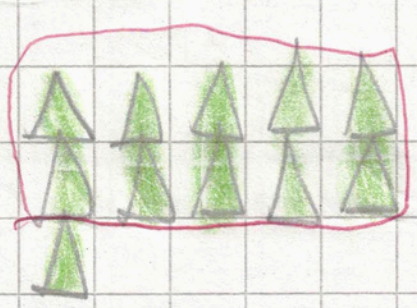

da	y
1	1

da	y
1	2

primaria.org

Numera in senso crescente da 0 a 14

0 1 2 3 4 5 6 7 8 9

10 11 12 13 14

0 1 2 3 4 5 6 7 8 9

10 11 12 13 14

0 1 2 3 4 5 6 7 8 9

10 11 12 13 14

0 1 2 3 4 5 6 7 8 9

10 11 12 13 14

0 1 2 3 4 5 6 7 8 9

10 11 12 13 14

0 1 2 3 4 5 6 7 8 9

10 11 12 13 14

primaria.org

Numera in senso decrescente da 14 a 0

14 13 11 12 10 9 8 7 6 5

4 3 2 1 0

14 13 12 11 10 9 8 7 6 5

4 3 2 1 0

14 13 12 11 10 9 8 7 6 5

4 3 2 1 0

14 13 12 11 10 9 8 7 6 5

4 3 2 1 0

14 13 12 11 10 9 8 7 6 5

4 3 2 1 0

14 13 12 11 10 9 8 7 6 5

primaria.org

SCHEDA N. NOME ..... CLASSE..... DATA .....

1 Scopri e scrivi le addizioni contando i salti sulla linea dei numeri.

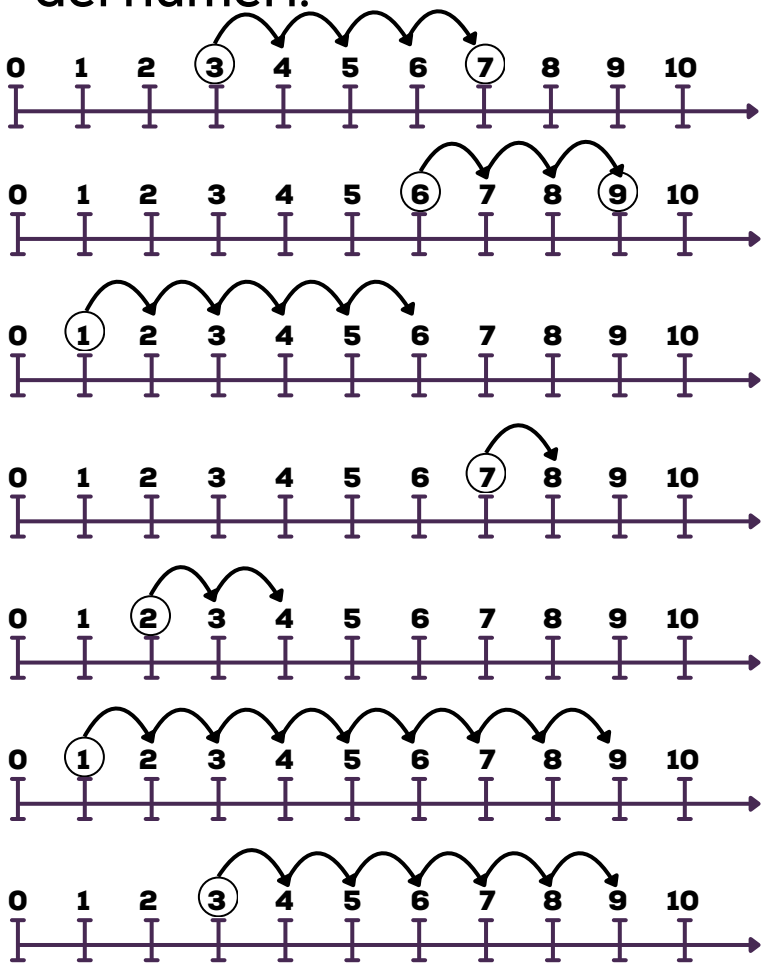

3 + 4 = 7

..... + ... = ...

..... + ... = ...

..... + ... = ...

..... + ... = ...

..... + ... = ...

..... + ... = ...

2 Costruisci tu altre addizioni sull'esempio dell'esercizio precedente.

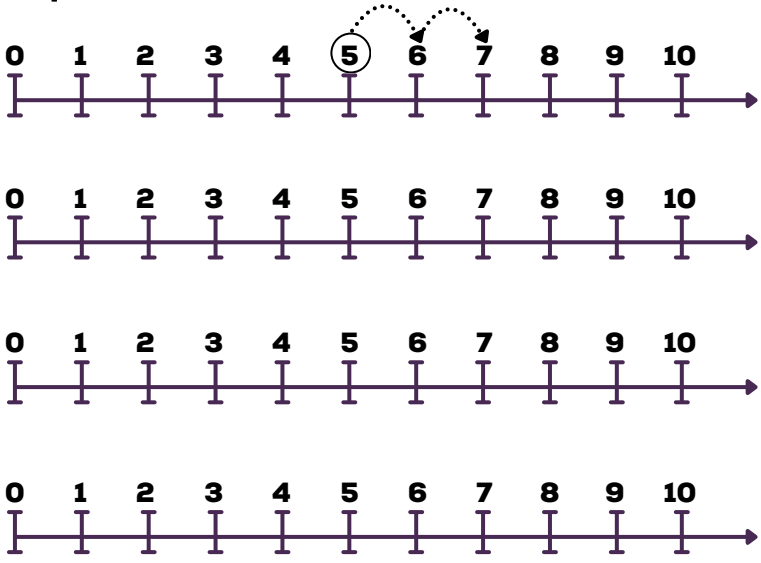

..... + ... = ...

..... + ... = ...

..... + ... = ...

..... + ... = ...

Addizioni in colonna con 3 addendi

4 + 5 + 2 = 11

3 + 3 + 3 = 9

10 + 2 + 2 = 14

0 + 9 + 3 = 13

8 + 3 + 3 = 14

4 + 4 + 5 = 13

10 + 1 + 2 = 13

7 + 0 + 1 = 8

9 + 2 + 1 = 12

6 + 6 + 2 = 14

5 + 5 + 0 = 10

7 + 1 + 1 = 9

primaria.org

Problema

Nelle gare di moto Giacomo ha vinto 6 medaglie 2 coppe e 2 coccarde.

Quanti premi ha in tutto Giacomo?

Risolvo

Dati

6 medaglie

2 coppe

2 coccarde

? premi in tutto

6 + 2 + 2 = 10

Sollada co e in colonna

primaria.org



da	u
	6 +
	2 +
	2 =
1	0

10 → 1 da 2 0 u

Risposta

Giacomo ha 10 premi.

primaria.org

Bari · 31 · Marzo

Oggi è giovedì

Rappresenta sull'abaco i seguenti numeri

10 - 9 - 13 - 5 - 11 - 4 - 6 - 12

10 | da | u | → 1 da e 0 u

9 | da | u | → 0 da e 9 u

12 | da | u | → 1 da e 2 u

primaria.org

5 | da | u | → 0 da e 5 u

1 ~~3~~ | da | u | → 1 da e 1 u

~~14~~ 14 | da | u | → 1 da e 1 u

~~65~~ | da | u | → 0 da e 6 u

primaria.org

1 2 da u → 0 da l 2 u

primaria.org

Riscrivi i numeri da minore al maggiore

~~14~~ · ~~3~~ · ~~10~~ · ~~8~~ · ~~11~~ · ~~9~~ · ~~12~~

3 · 8 · 9 · 10 · 11 · 12 · 14

Riscrivi i numeri da maggiore al minore

~~2~~ · ~~0~~ · ~~13~~ · ~~10~~ · ~~12~~ · ~~7~~ · ~~9~~ · ~~5~~

13 · 12 · 10 · 9 · 7 · 5 · 2 · 0

primaria.org

Completa con i segni

>, < =

14 > 10

6 < 13

0 < 12

11 = 11

8 > 6

13 < 14

5 = 5

19 > 10

Bravissima!

primaria.org

Calcola con le dita (Att. svolte in classe)

10 + 3 = 13

12 + 2 = 14

8 + 7 = 15

5 + 6 = 11

4 + 9 = 13

3 + 7 = 10

14 - 6 = 8

10 - 7 = 3

~~13 - 5 = 8~~

11 - 6 = 5

8 - 4 = 4

9 - 5 = 4

primaria.org

Leggi e collega ogni cifra al suo corrispondente in lettere

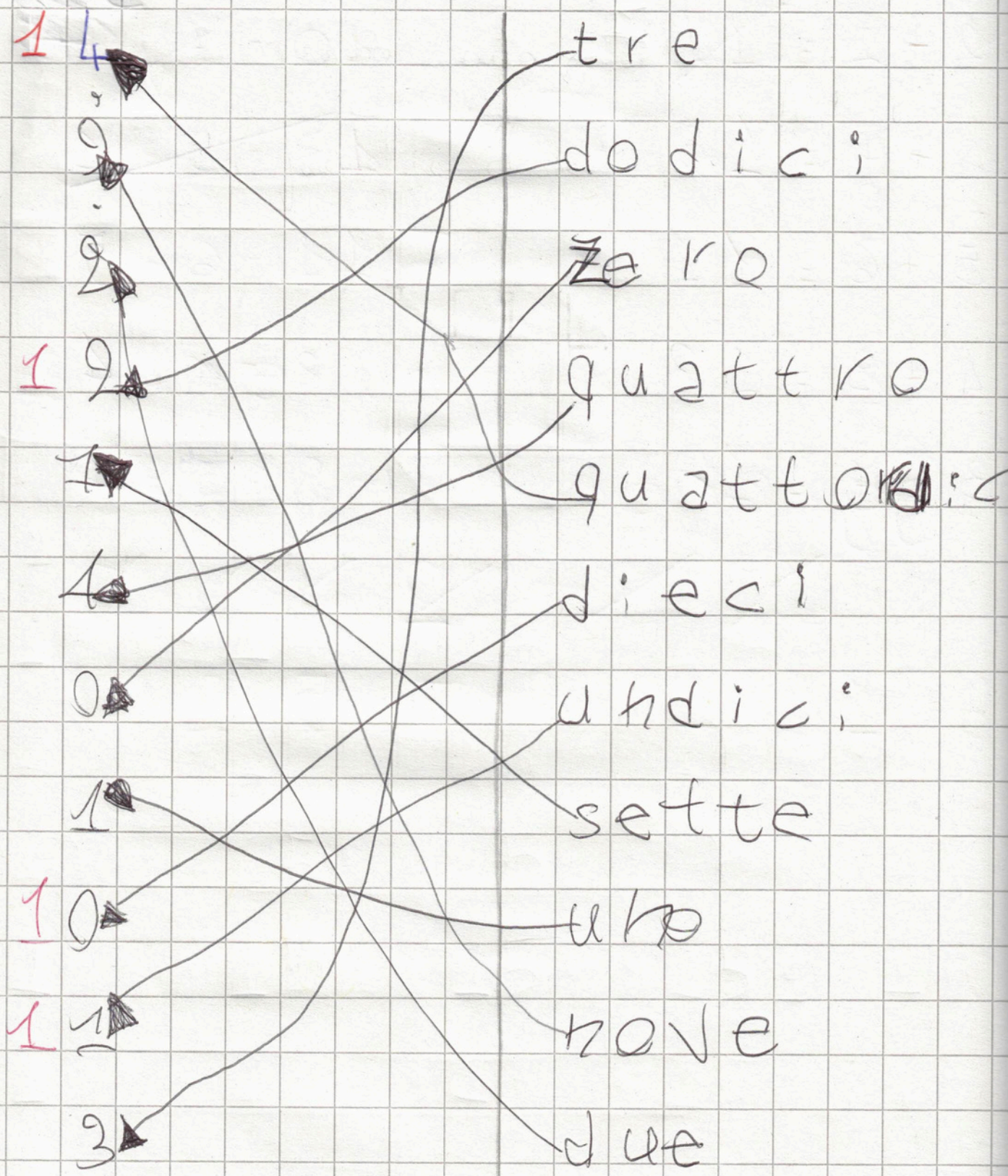

primaria.org

SCHEDA N. NOME ..... CLASSE..... DATA .....

Leggi e collega ogni cifra al suo corrispondente in lettera

14	tre
9	dodici
2	zero
19	quattro
7	quattordici
4	dieci
0	undici
1	sette
10	uno
11	nove
3	due

Per lunedì 04/04

Catene di operazioni

+2 +1 +0 +2 +1 +2 +1 +3 +0

2 | 4 | 5 | 5 | 7 | 8 | 10 | 11 | 14 | 14

-2 -1 -0 -2 -3 -1 -2 -0 -0

1 | 4 | 12 | 11 | 11 | 9 | 6 | 5 | 3 | 3 | 3

+1 +2 +0 +1 +1 +1 +2 +0 +0

5 | 6 | 8 | 8 | 9 | 10 | 11 | 13 | 13 | 13

ok!

primaria.org

Bari 4 Aprile

Oggi è lunedì

Il numero 15

15

15 15 15 15 15

15 15 15 15 15

15 15 15 15 15

15 15 15 15 15

15 15 15 15 15

15 15 15 15 15

15 15 15 15 15

primaria.org

SCHEDA N. NOME ..... CLASSE..... DATA .....

IL NUMERO 15

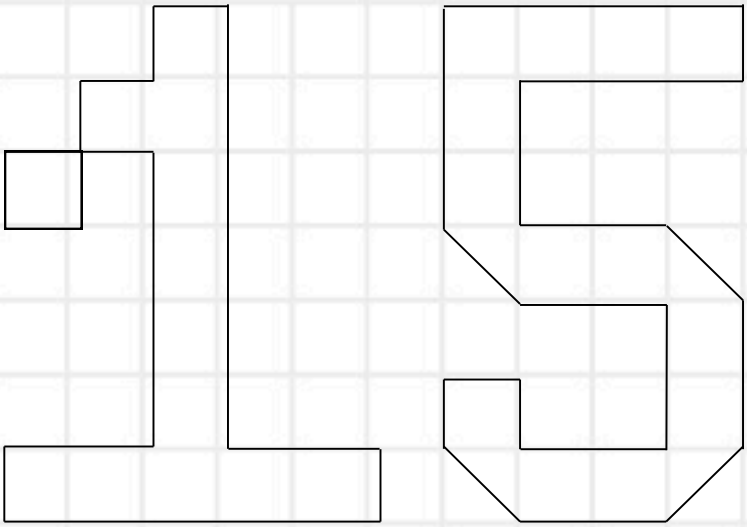

Tanti modi per formare 15



sei uno spettacolo!
♡♡

primaria.org

Formo il numero 15

15 quindici

15 quindici

15 quindici

15 quindici

15 quindici

15 quindici

15 quindici

15 quindici

15 quindici

primaria.org

SCHEDA N. NOME ..... CLASSE..... DATA .....

LE ADDIZIONI CON L'ABACO

1 Rappresenta le addizioni sull'abaco, poi scrivi il risultato.

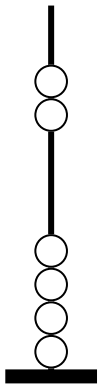

4 + 2 = ☐

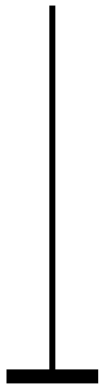

3 + 4 = ☐

2 + 1 = ☐

5 + 4 = ☐

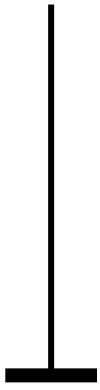

4 + 5 = ☐

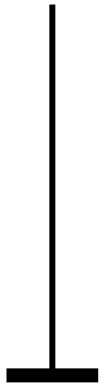

2 + 4 = ☐

5 + 3 = ☐

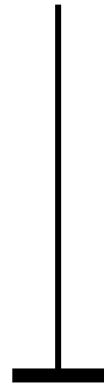

6 + 2 = ☐

Numerada 0 a 15

0 1 2 3 4 5 6 7 8 9

10 11 12 13 14 15

0 1 2 3 4 5 6 7 8 9

10 11 12 13 14 15

0 1 2 3 4 5 6 7 8 9

10 11 12 13 14 15

primaria.org

SCHEDA N. NOME ..... CLASSE..... DATA .....

LE ADDIZIONI CON L'ABACO

2 Conta le palline infilate sull'abaco, coolorale di blu e scrivi l'operazione corrispondente.

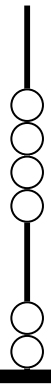

☐ + ☐ = ☐

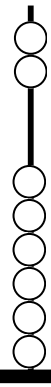

☐ + ☐ = ☐

☐ + ☐ = ☐

☐ + ☐ = ☐

☐ + ☐ = ☐

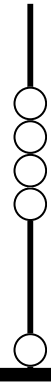

☐ + ☐ = ☐

SCHEDA N. NOME ..... CLASSE..... DATA .....

UN PROBLEMA CON LA SOTTRAZIONE

Risolvi il problema seguendo le indicazioni.



- In cortile, sui fili della luce, ci sono 9 rondini ferme.
  A un tratto 7 rondini volano via.
  Quante rondini restano sui fili della luce?
- Sottolinea in blu il testo del problema.
- Cerchia i dati.
- Sottolinea in rosso la domanda.
- Completa.

9: _____

7: _____

- Risolvi con i numeri. ☐ ○ ☐ = ☐
- Risolvi con il diagramma.

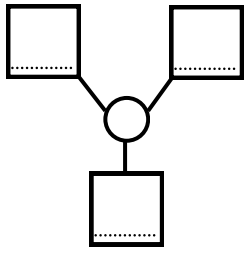

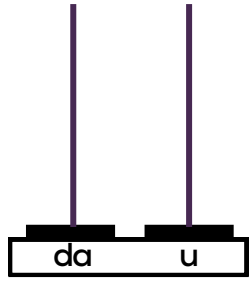

- Rispondi

_____

_____

_____

Numerazione per 2

0 - 2 - 4 - 6 - 8 - 10 - 12 - 14 - 16 - 18

20

0 - 2 - 4 - 6 - 8 - 10 - 12 - 14 - 16 - 18

20

0 - 2 - 4 - 6 - 8 - 10 - 12 - 14 - 16 - 18

20

0 - 2 - 4 - 6 - 8 - 10 - 12 - 14 - 16 - 18

20

0 - 2 - 4 - 6 - 8 - 10 - 12 - 14 - 16 - 18

20

0 - 2 - 4 - 6 - 8 - 10 12 14 16 18

20

0 - 2 - 4 - 6 - 8 - 10 12 14 16 18

primaria.org

Bari 6 aprile

Oggi è mercoledì

Completa i diagrammi

7 3 → + → 10

5 8 → + → 13

9 6 → + → 15

8 4 → + → 12

primaria.org

SCHEDA N. NOME ..... CLASSE..... DATA .....

COMPLETA I DIAGRAMMI

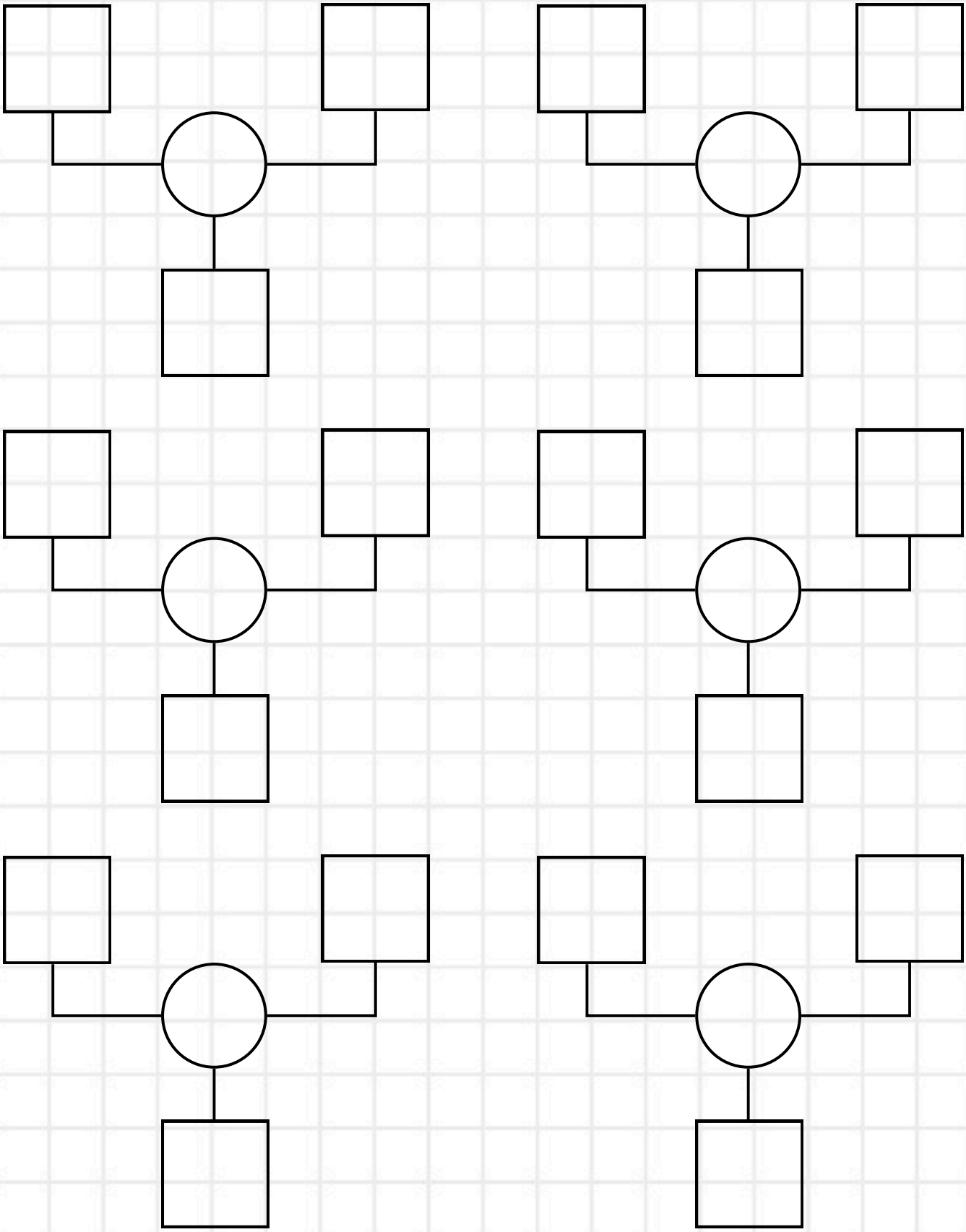

7 + 7 = 14

5 − 3 = 2

13 − 0 = 13

15 − 8 = 7

12 − 6 = 6

14 − 9 = 5

primaria.org

SCHEDA N. NOME ..... CLASSE..... DATA .....

COMPLETA I DIAGRAMMI

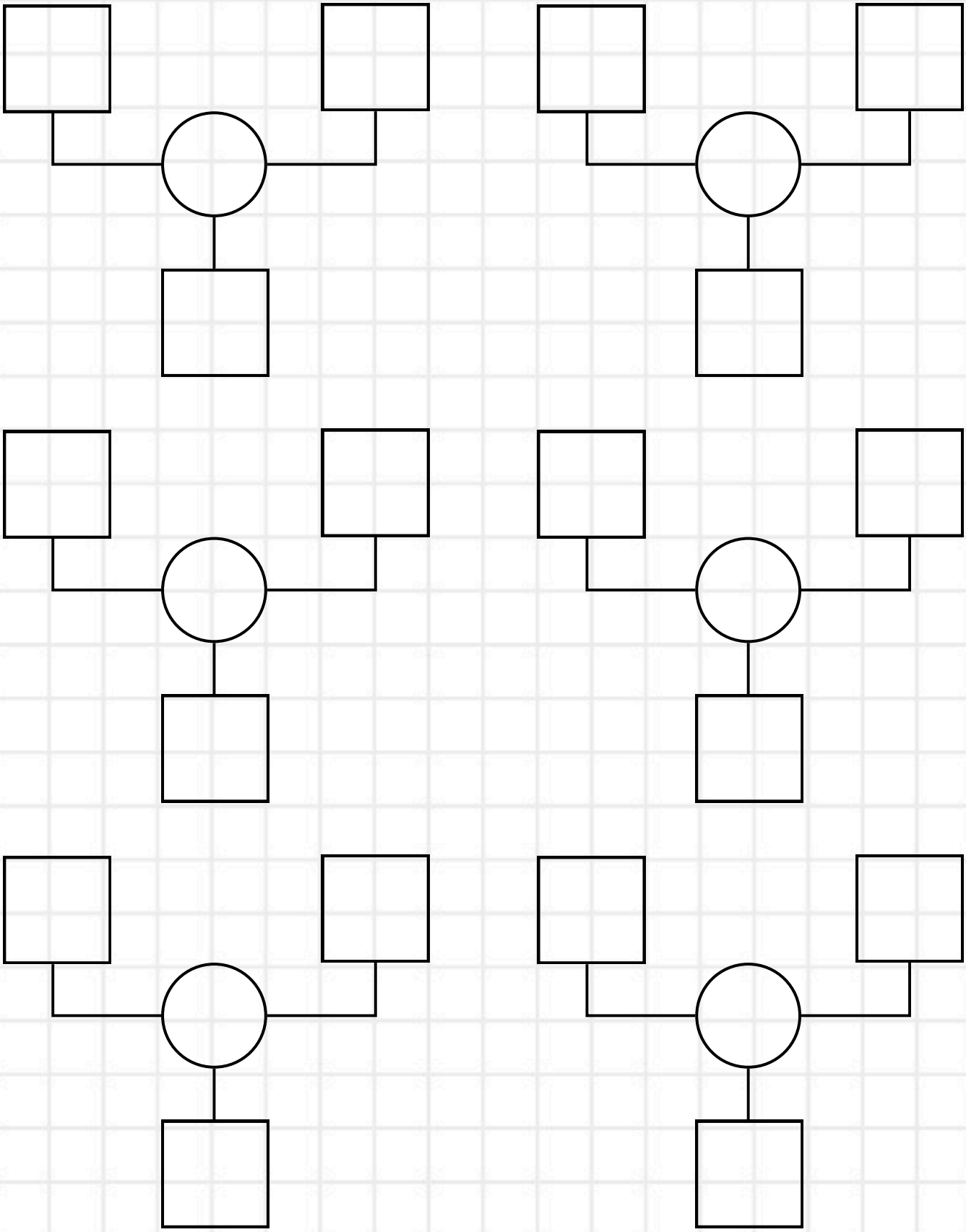

SCHEDA N. NOME ..... CLASSE..... DATA .....

SCRIVERE IL PROBLEMA

◆ Osserva il disegno, scrivi il testo del problema e risolvilo



◆ Risolvi con i numeri.

☐ ○ ☐ = ☐

◆ Risolvi con il diagramma.

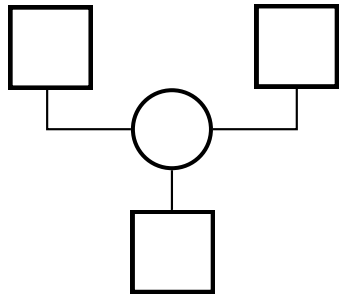



◆ Rispondi

Calcola e completa

+	0	2	6
5	5	7	11
7	7	9	13
9	9	11	15

+	5	8	3
8	13	16	11
7	12	15	10
6	11	14	9

−	0	3	5
10	10	7	5
9	9	6	4
6	6	3	1

−	6	5	4
7	1	2	3
8	2	3	4
10	4	5	6

Completa sul libro pagg 172, 173

primaria.org

SCHEDA N. NOME ..... CLASSE..... DATA .....

CALCOLA E COMPLETA

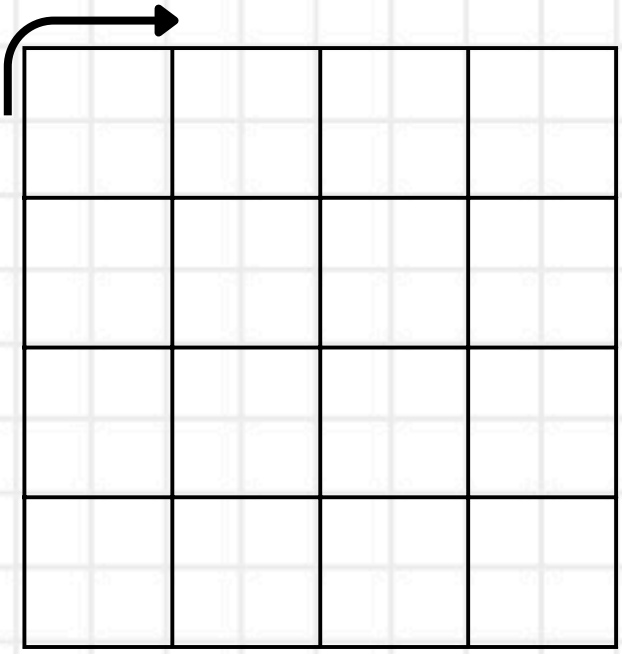

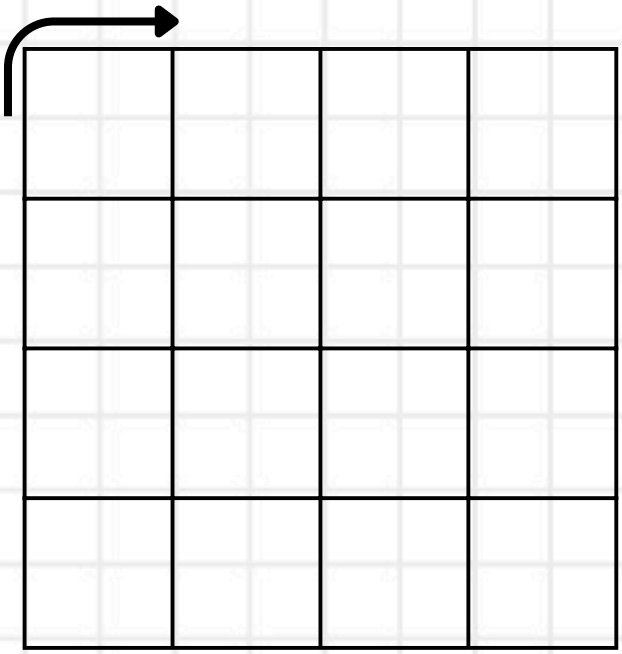

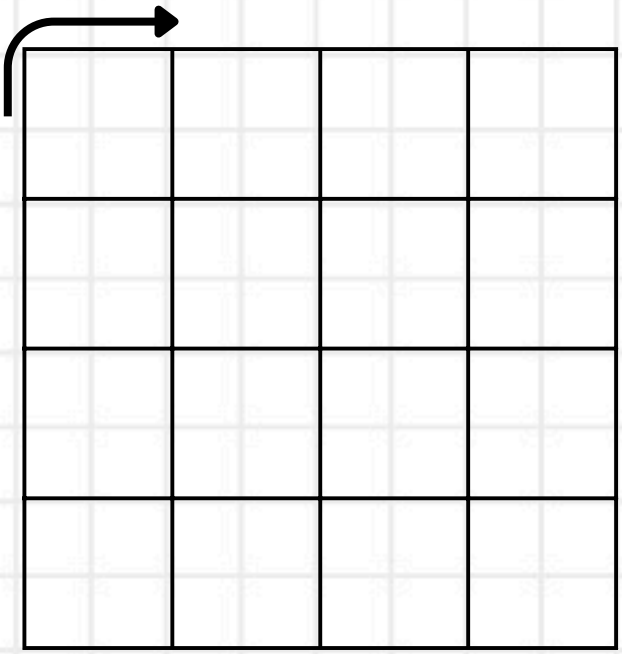

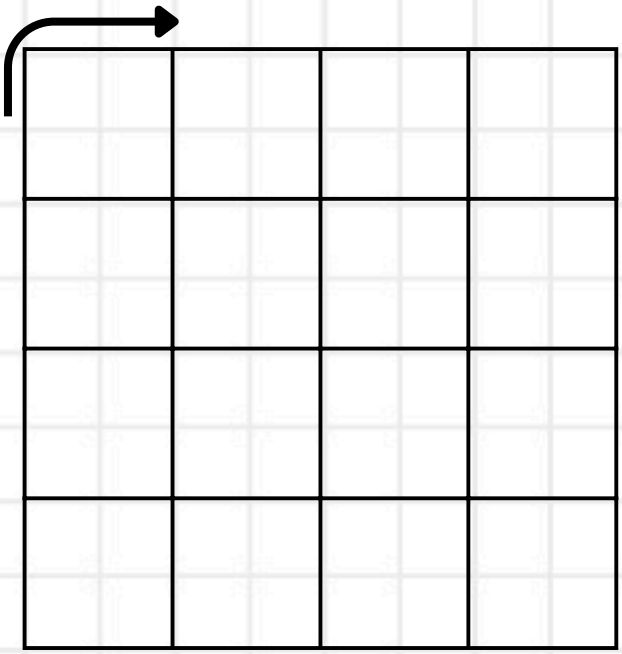

Per lunedì 11 Aprile

Svolgi le operazioni utilizzando il diagramma

12 + 3 = 15

7 + 5 = 12

9 + 6 = 15

11 - 6 = 5

13 - 3 = 10

9 - 8 = 1



primaria.org

Bari · 11 · Aprile

Oggi · è · lunedì

Il · numero · 16



16 16 16

16 16 16

16 16 16

16 16 16

16 16 16

16 16 16

16 16 16

primaria.org

SCHEDA N. NOME ..... CLASSE..... DATA .....

CALCOLA E COMPLETA

Formo il numero 16 in tanti modi

16

5+4+7

10+1+5 5+5+6

16

4+3+9

4+4+8 3+3+10

16

13+2+1

11+1+4 12+2+2

16

14+1+1 8+7+1

7+1+8

primaria.org

Formo il numero 16

16 sedici

16 sedici

16 sedici

16 sedici

16 sedici

16 sedici

16 sedici

16 sedici

16 sedici

16 sedici

primaria.org

Bari 12 aprile

Oggi è martedì

Addizioni e Sottrazioni

Operazioni INVERSE

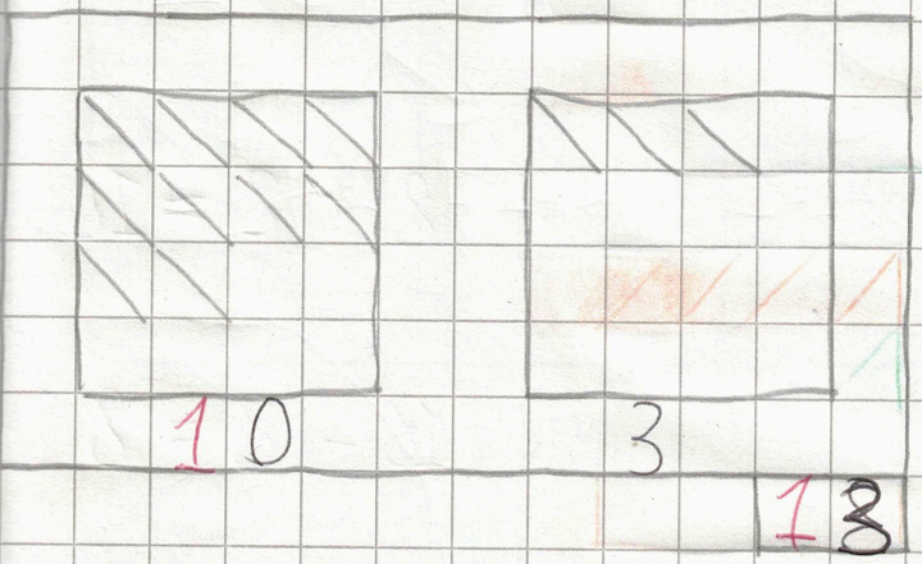

10 + 3 = 13

13 − 3 = 10

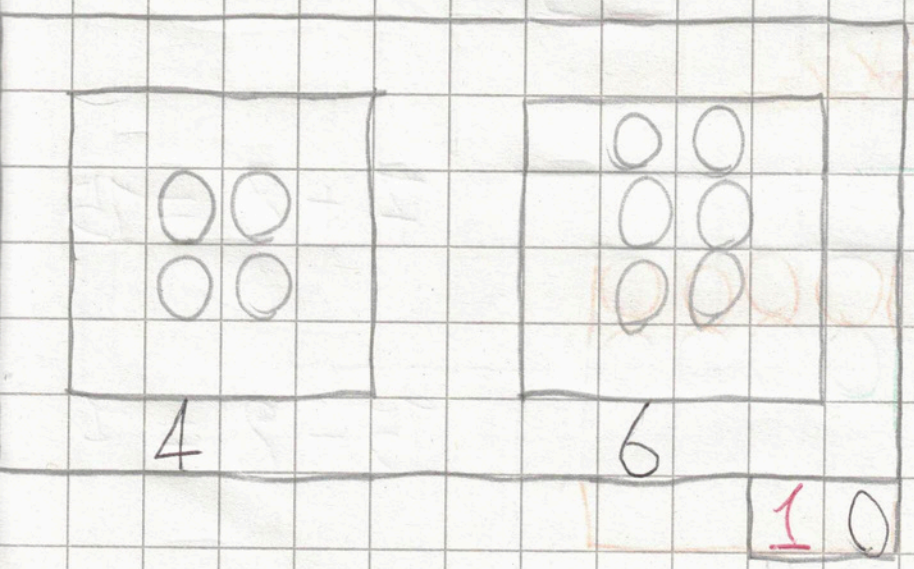

4 + 6 = 10

10 − 6 = 4

primaria.org

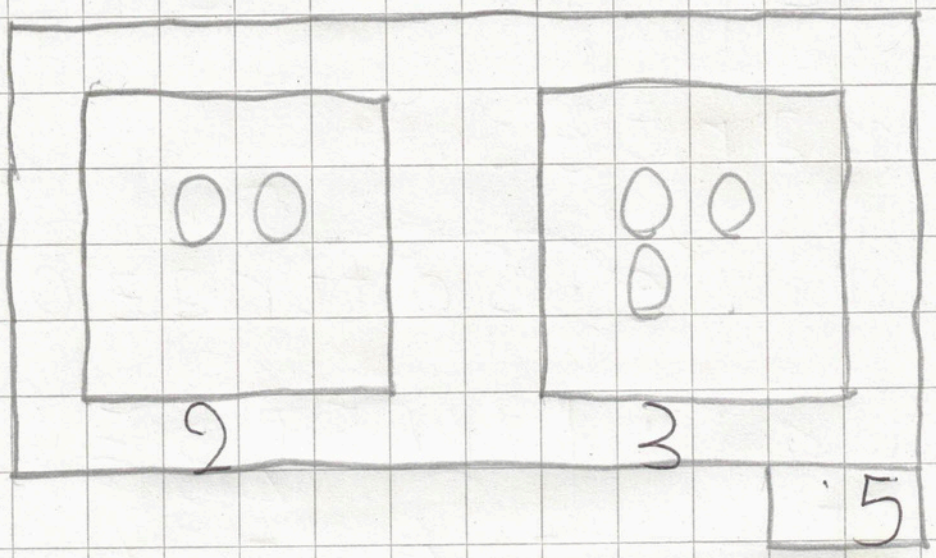

2 + 3 = 5

5 − 3 = 2

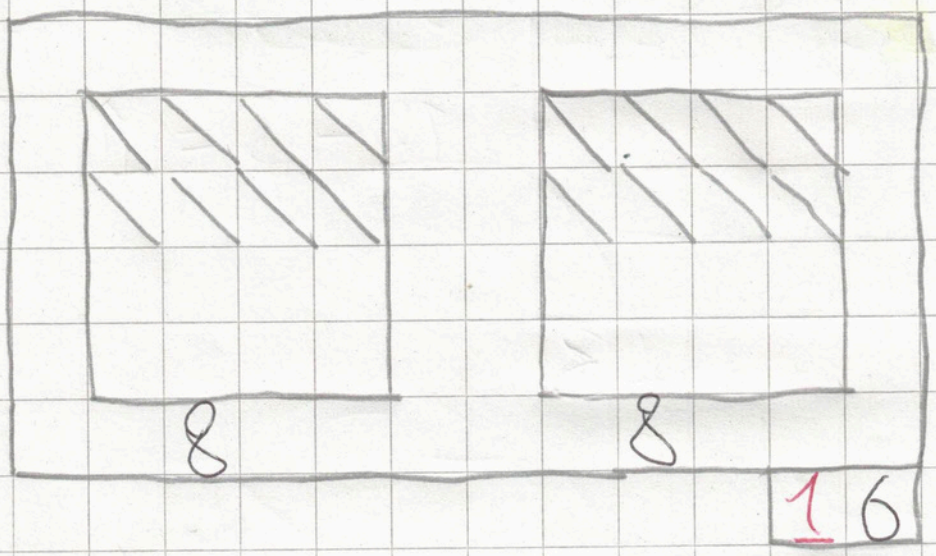

8 + 8 = 16

16 − 8 = 8

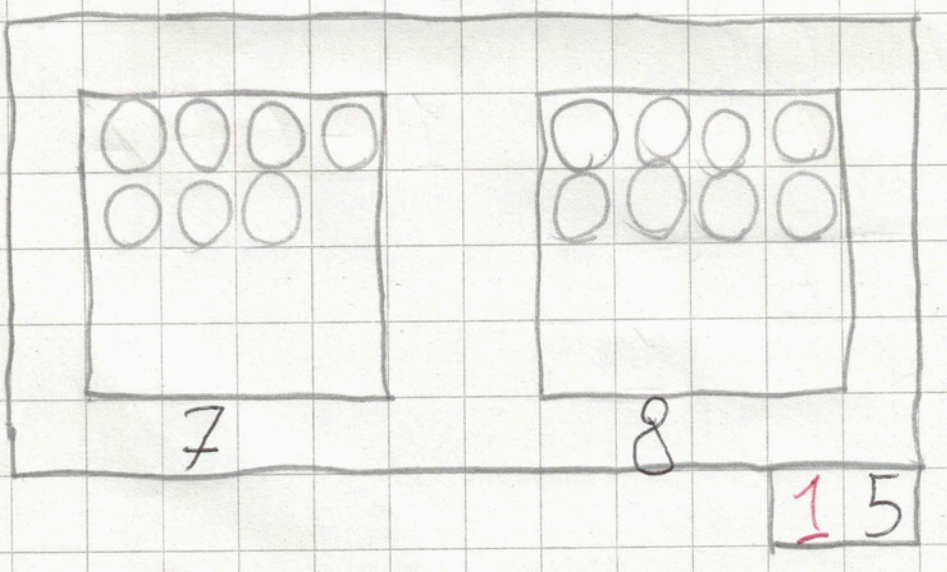

7 + 8 = 15

15 − 8 = 7

primaria.org

SCHEDA N. NOME ..... CLASSE..... DATA .....

COMPLETA

◆ Disegna gli elementi che mancano e completa le addizioni e le sottrazioni.

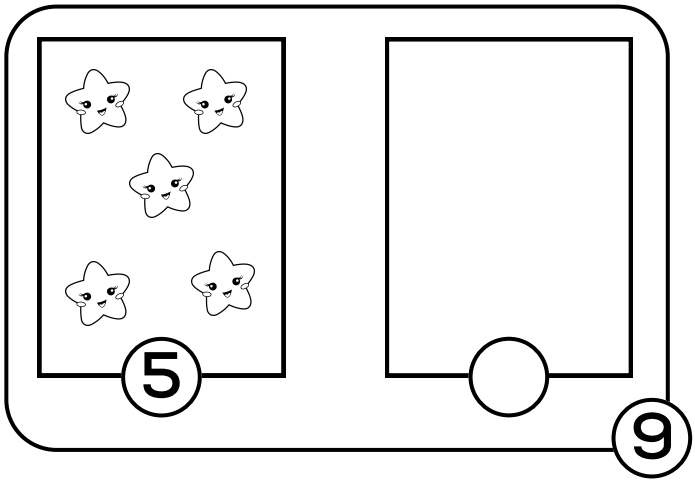

5 + ... = 9

9 - ..... = 5

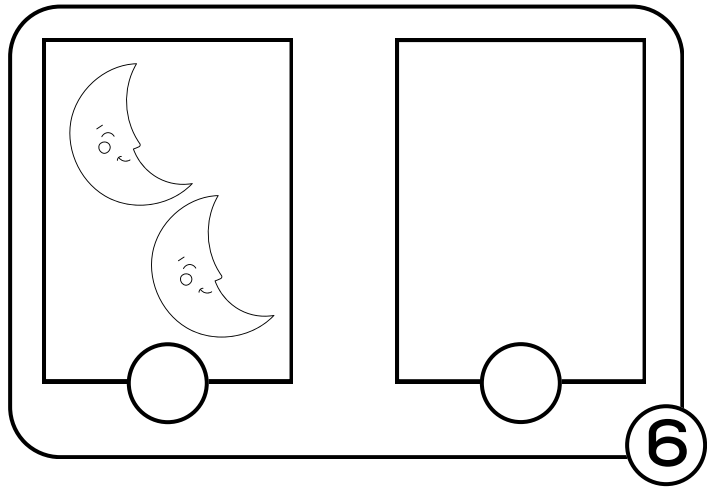

2 + ... = 6

6 - ..... = 2

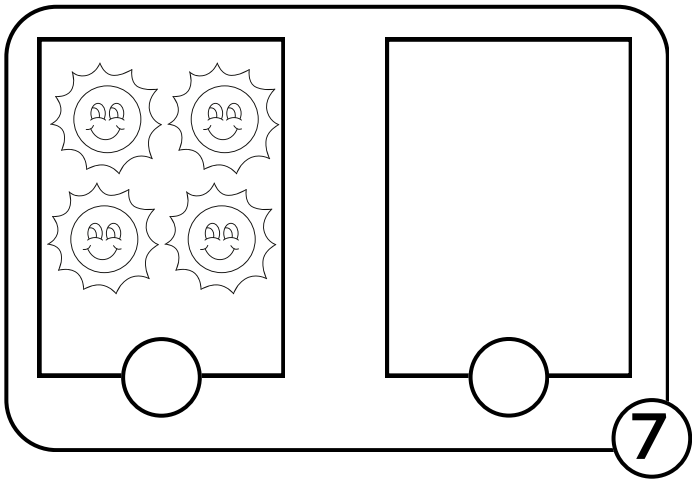

4 + ... = 7

7 - ..... = 4

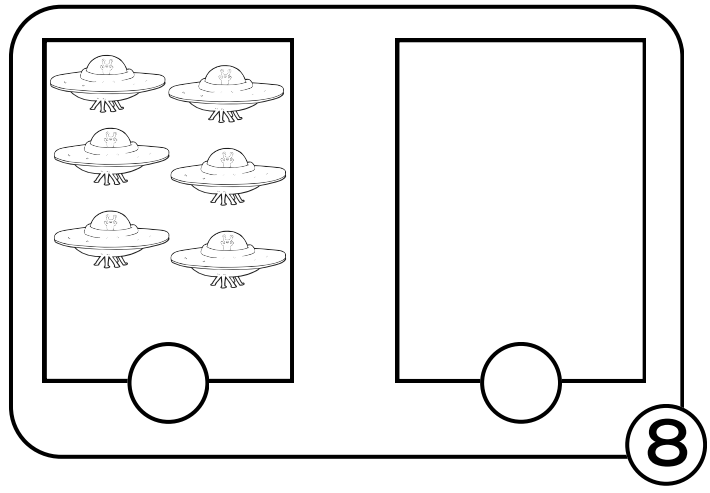

6 + ... = 8

8 - ..... = 6

SCHEDA N. NOME ..... CLASSE..... DATA .....

RISOLVI IL PROBLEMA

- Risolvi il problema seguendo le indicazioni.

La nonna ha regalato ad Alessia un bracciale di 12 perline.
Il bracciale si rompe e si perdono 5 perline.

- Sottolinea in blu il testo del problema.
- Cerchia i dati.
- Sottolinea in rosso la domanda.
- Completa.

12:_____

5:_____

- Risolvi con il disegno.

- Risolvi con i numeri.

☐ ○ ☐ = ☐

- Risolvi con il diagramma.

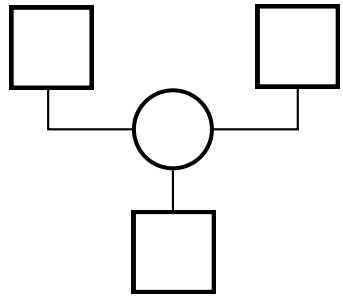

- Rispondi

_____

_____

SCHEDA N. NOME ..... CLASSE..... DATA .....

RISOLVI IL PROBLEMA

- Scrivi la domanda, poi risolvi il problema seguendo le indicazioni.
  Marco ha 15 figurine dei suoi personaggi preferiti,
  lo zio gli regala una bustina con 5 figurine.

  _____

- Sottolinea in blu il testo del problema.
- Cerchia i dati.
- Completa.

  12:_____

  5:_____

- Risolvi con il disegno.

- Risolvi con il diagramma.

- Risolvi con i numeri.

  ☐ ○ ☐ = ☐

- Rispondi

_____

_____

SCHEDA N. NOME ..... CLASSE..... DATA .....

CONTIAMO

17 GIALLO	14 AZZURRO	
13 ARANCIONE	12 ROSSO	20 VERDE



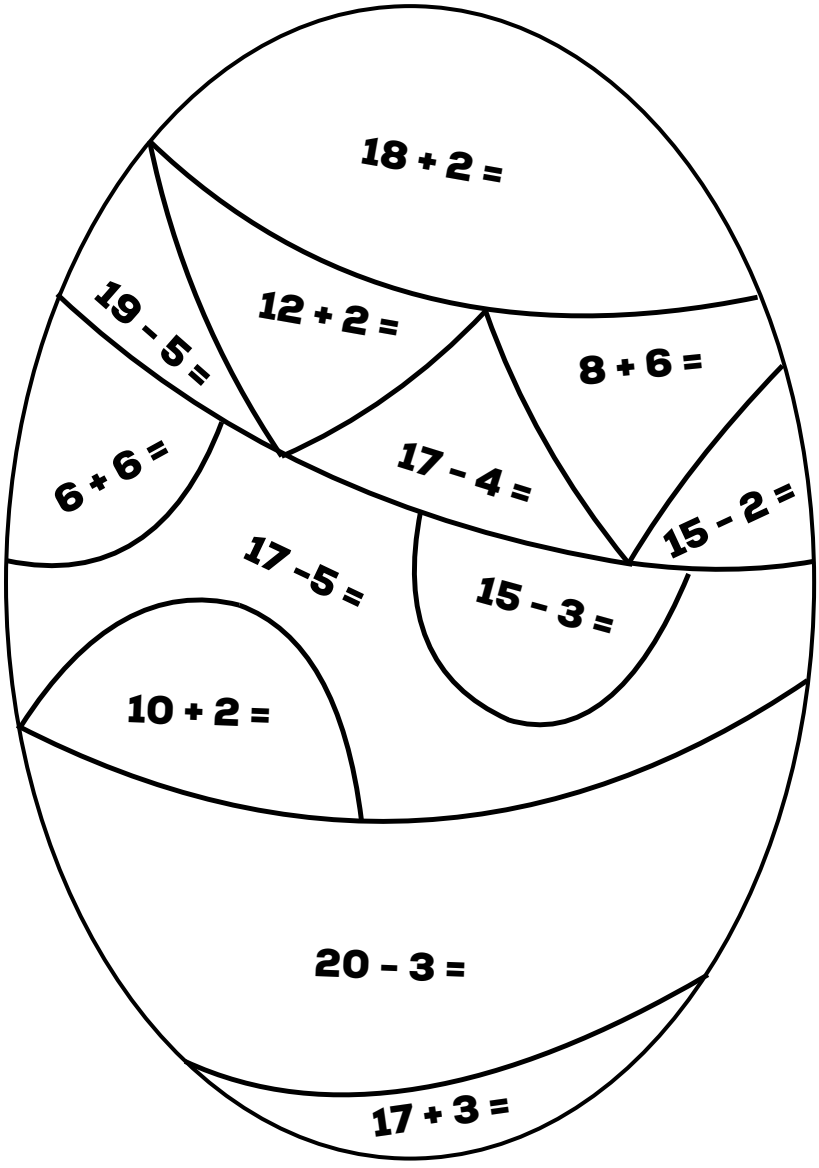

SCHEDA N. NOME ..... CLASSE..... DATA .....

- Aiuta il coniglietto a recuperare tutte le uova di Pasqua passando attraverso il labirinto

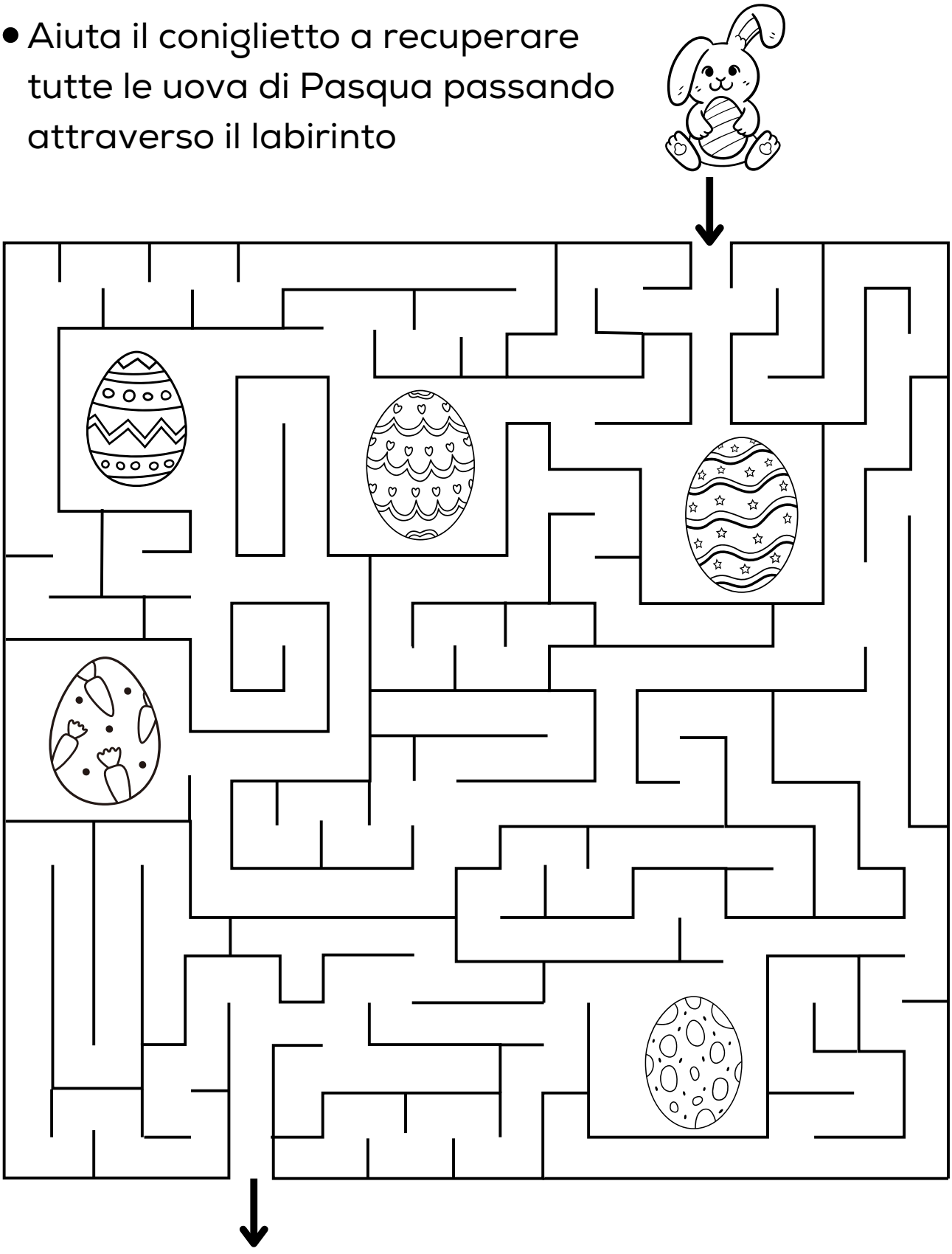

Bari · 20 · Aprile

Oggi · è · mercoledì

Il · numero · 17



17 17 17 17 17

17 17 17 17 17

17 17 17 17 17

17 17 17 17 17

17 17 17 17 17

17 17 17 17 17

17 17 17 17 17

primaria.org

SCHEDA N. NOME ..... CLASSE..... DATA .....

IL NUMERO 16

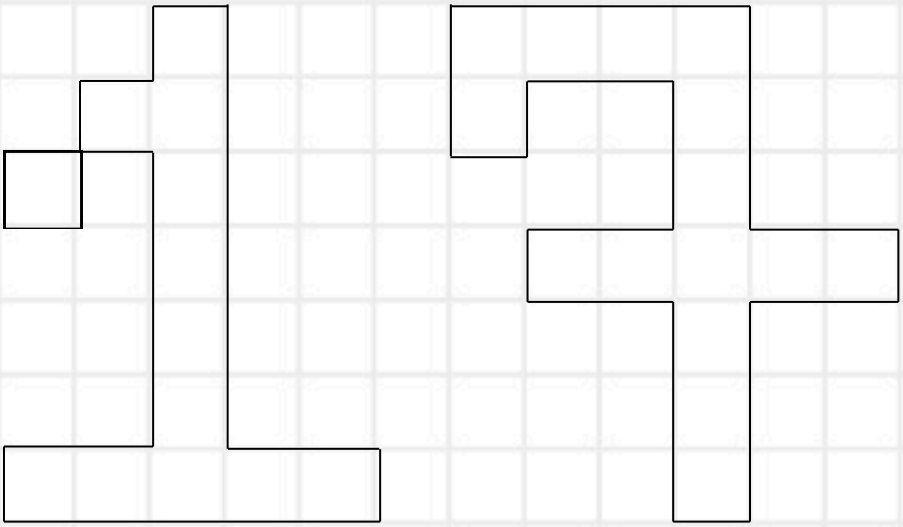

Formo il numero 11 in tanti modi

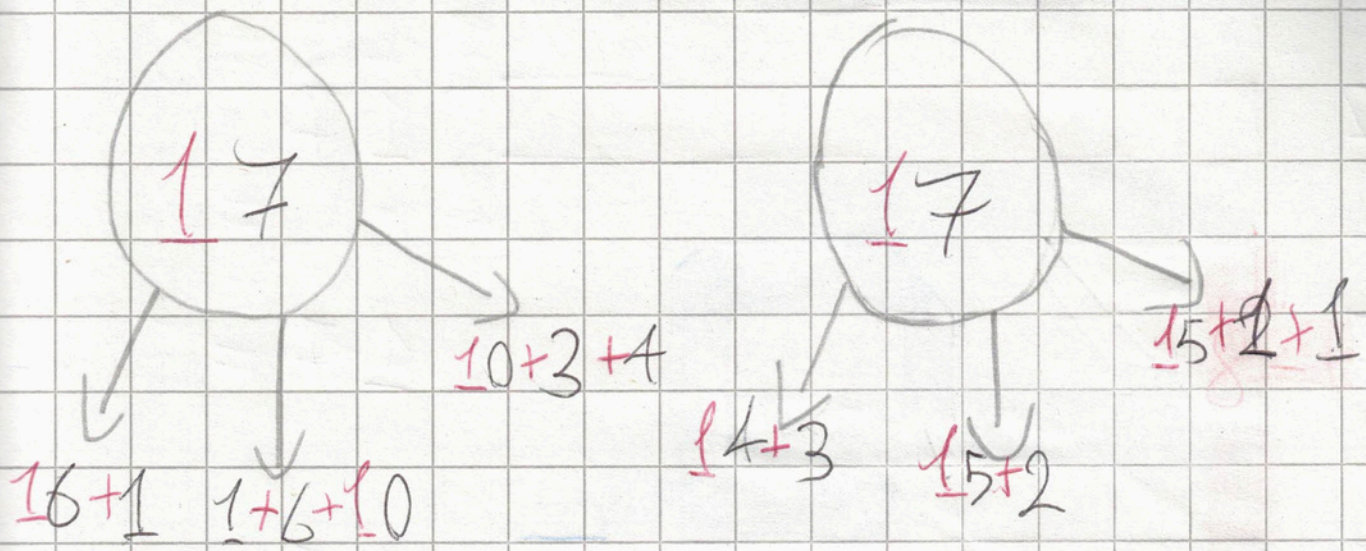

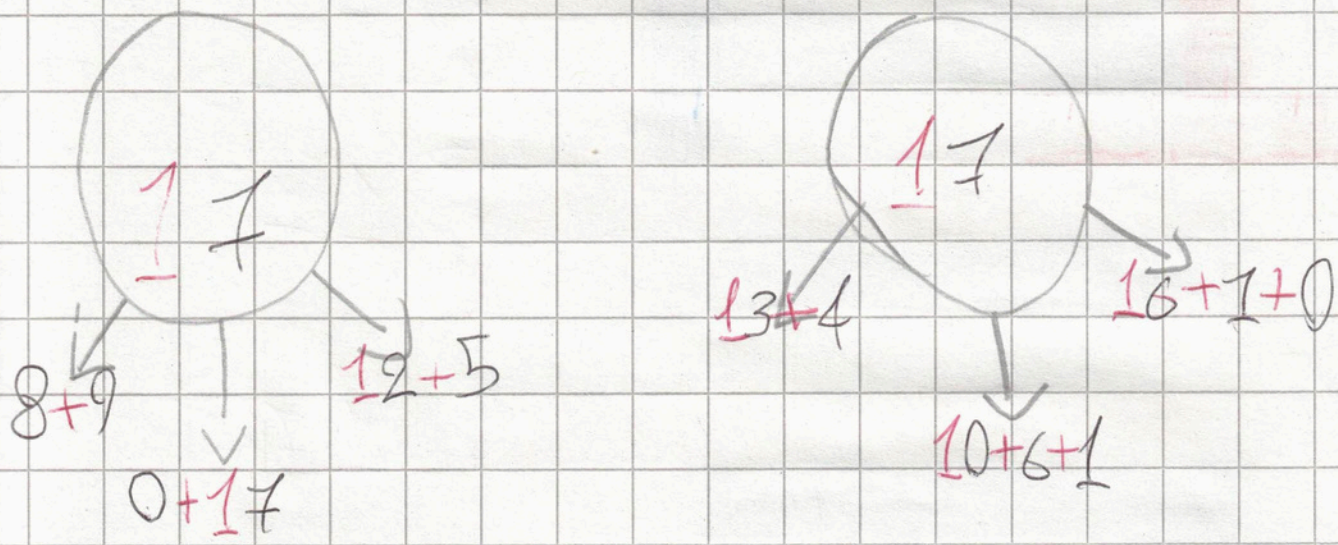

primaria.org

formo il numero 17

17 17

17 17

17 17

17 17

17 17

17 17

17 17

17 17

17 17

17 17

primaria.org

Numera in ordine crescente da 0 a 17

0 1 2 3 4 5 6 7 8 9

10 11 12 13 14 15 16 17

0 1 2 3 4 5 6 7 8 9

10 11 12 13 14 15 16 17

0 1 2 3 4 5 6 7 8 9

10 11 12 13 14 15 16 17

0 1 2 3 4 5 6 7 8 9

10 11 12 13 14 15 16 17

0 1 2 3 4 5 6 7 8 9

10 11 12 13 14 15 16 17

0 1 2 3 4 5 6 7 8 9

10 11 12 13 14 15 16 17

primaria.org

Sottrazioni sulla linea dei numeri

16 - 3 = 13

11 - 5 = 6

12 - 6 = 6

14 - 6 = 8

15 - 8 = 7

9 - 4 = 5

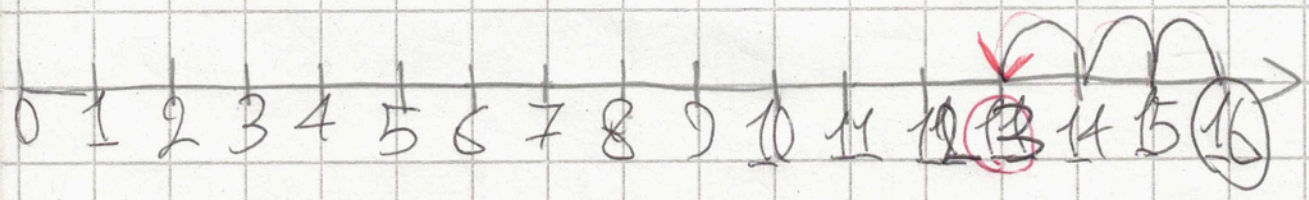



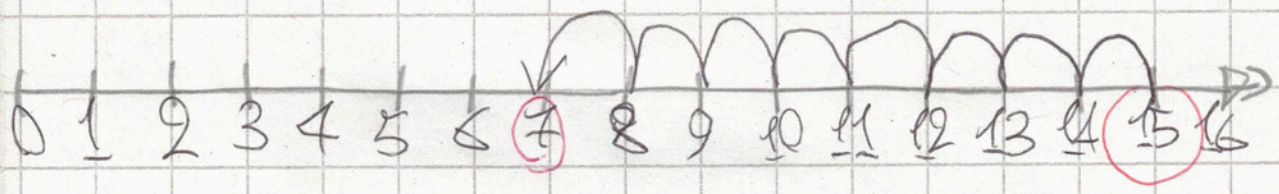

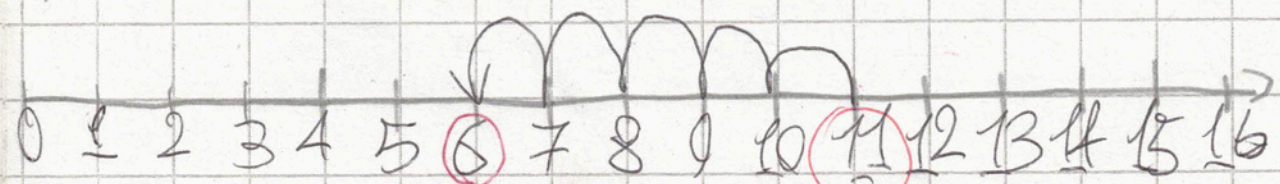

primaria.org

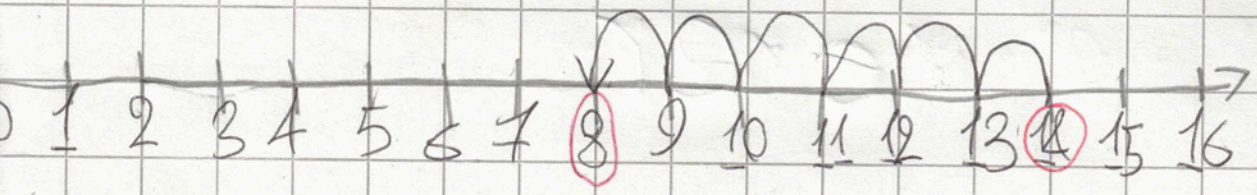



Sei una Spettacolo!

primaria.org

SCHEDA N. NOME ..... CLASSE..... DATA .....

GIORNATA MONDIALE DELLA TERRA

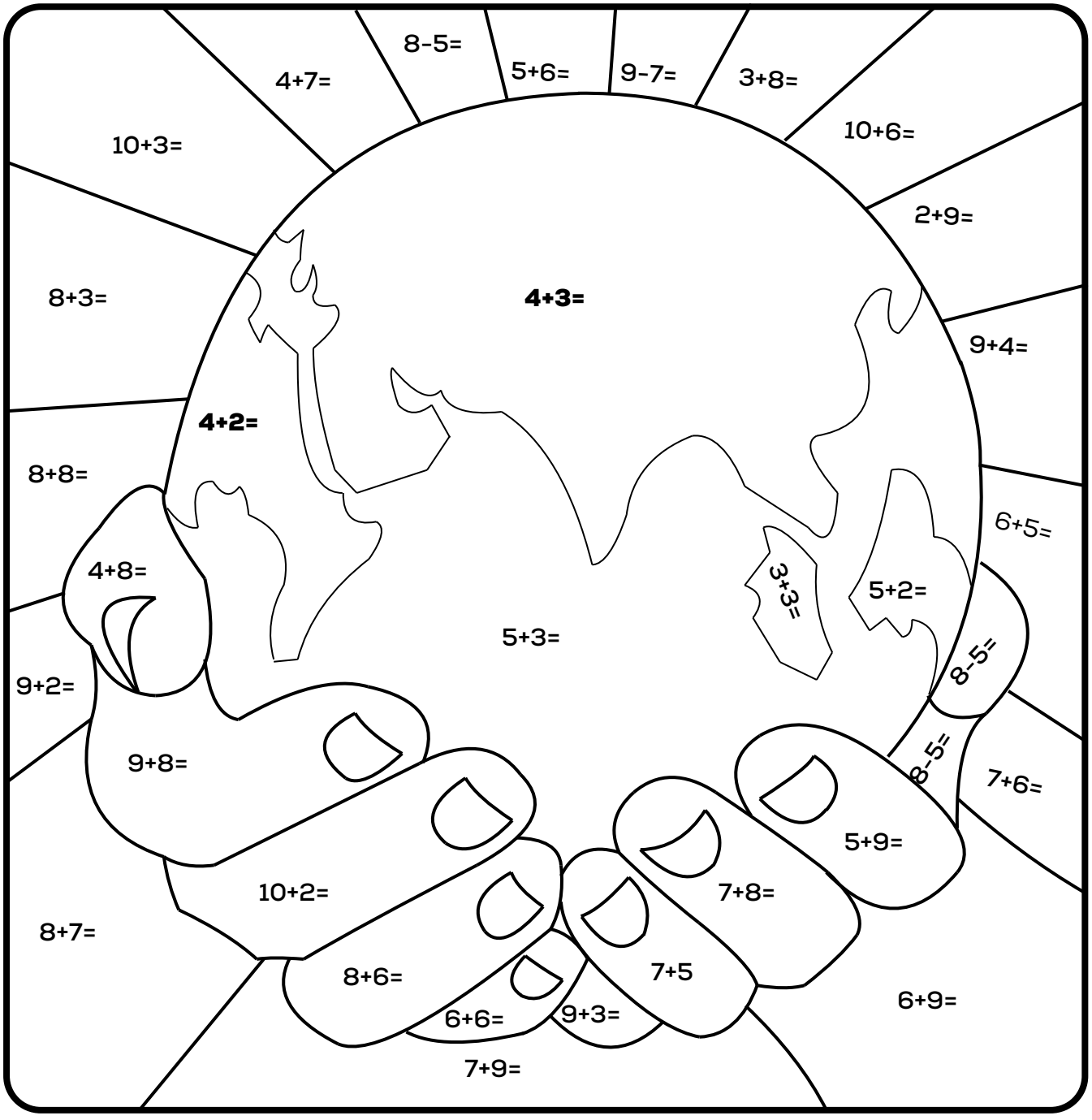

GIALLO 16; 13; ARANCIONE 11 ROSA 15;14;12 VERDE 6; 7; BLU 8

Ordina i numeri dal maggiore al minore

13 5 0 16 14 3 10 1 17

17 16 14 13 10 5 3 1 0

Ordina i numeri dal minore al maggiore

9 15 2 11 4 6 12 7 3

2 3 4 6 7 9 11 12 15

Completa le tabelle

è minore		
13	10	0
10	10	7
14	16	6
0	16	13

è maggiore		
16	6	13
	5	9
12	10	0
	3	2

primaria.org

Bari · 26 · Aprile

Oggi · è · martedì

Il · numero · 18

18

18	18	18	18	18
18	18	18	18	18
18	18	18	18	18
18	18	18	18	18
18	18	18	18	18
18	18	18	18	18

primaria.org

SCHEDA N. NOME ..... CLASSE..... DATA .....

IL NUMERO 16

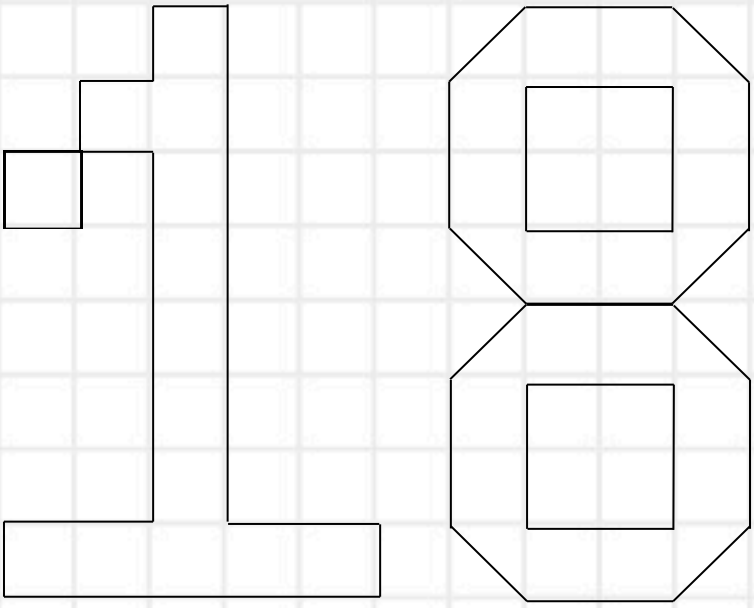

Formo il numero 18

18 18 18

18 18 18

18 18 18

18 18 18

18 18 18

18 18 18

18 18 18

18 18 18

18 18 18

primaria.org

Numera in senso decrescente da 18 a 0

18 17 16 15 14 13 12
11
10 9 8 7 6 5 4
3 2 1 0

18 17 16 15 14 13 12
11 10 9 8 7 6 5
4 3 2 1 0

18 17 16 15 14 13 12
11 10 9 8 7 6 5
4 3 2 1 0

18 17 16 15 14 13 12
11 10 9 8 7 6
4 3 2 1 0

primaria.org

Calcola con la mente

9 + 5 = 14

10 + 7 = 17

16 + 2 = 18

14 + 4 = 18

12 + 0 = 12

11 + 3 = 14

16 + 1 = 17

8 + 8 = 16

9 + 9 = 18

18 + 0 = 18

È un lavoro Eccellente!

primaria.org

Bari 28 aprile

Oggi è giovedì

Calcola con le dita

15 - 5 = 10

18 - 6 = 12

10 - 4 = 6

9 - 8 = 1

3 - 1 = 2

17 - 4 = 13

12 - 6 = 6

11 - 3 = 8

13 - 6 = 7

18 - 9 = 9

primaria.org

Completa le tabelle

—	4	6	8	9
12	8	6	4	3
15	11	9	7	6
18	14	12	10	9
17	13	11	9	8

—	8	10	12	0
12	5	3	1	13
16	8	6	4	16
14	6	4	2	14
15	7	5	3	15

Completa

primaria.org

SCHEDA N. NOME ..... CLASSE..... DATA .....

COMPLETA

◆ Completa per ottenere sempre 10.

4 + ___ = 10

1 + ___ = 10

3 + ___ = 10

0 + ___ = 10

2 + ___ = 10

6 + ___ = 10

8 + ___ = 10

7 + ___ = 10

Bari · 9 · Maggio

Oggi · è · lunedì

Il · numero 19

19

19 · 19 · 19 · 19 · 19 · 19

19 · 19 · 19 · 19 · 19 · 19

19 · 19 · 19 · 19 · 19 · 19

19 · 19 · 19 · 19 · 19 · 19

19 · 19 · 19 · 19 · 19 · 19

19 · 19 · 19 · 19 · 19 · 19

19 · 19 · 19 · 19 · 19 · 19

primaria.org

SCHEDA N. NOME ..... CLASSE..... DATA .....

IL NUMERO 16

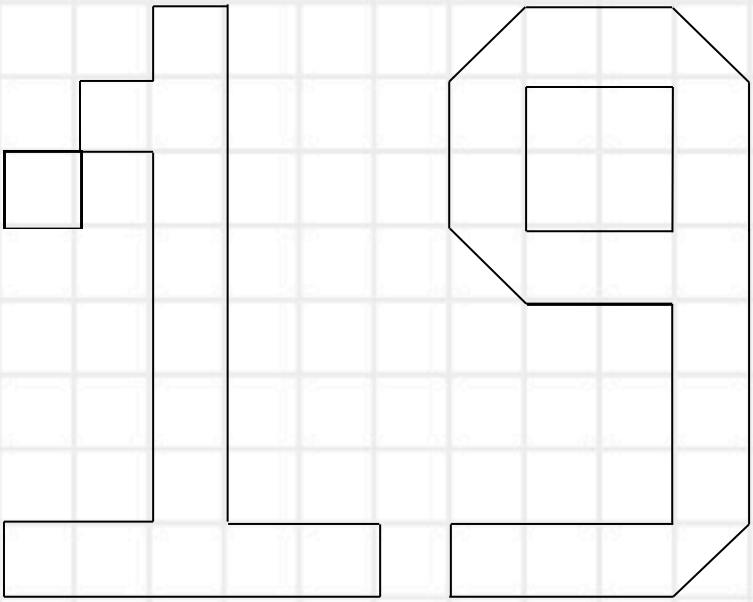

Formo il numero 19



primaria.org

Formo il numero 19

19 19 19

19 19 19

19 19 19

19 19 19

19 19 19

19 19 19

19 19 19

19 19 19

19 19 19

19 19 19

primaria.org

SCHEDA N. NOME ..... CLASSE..... DATA .....

DECINE E UNITÀ

◆ Osserva e completa.





_____ DECINA _____ UNITÀ

NUMERO IN LETTERE	NUMERO IN CIFRE	DECINA	UNITÀ
DIECI	**10**	**1**	**0**
UNDICI			
DODICI			
TREDICI			
QUATTORDICI			
QUINDICI			
SEDICI			
DICIASSETTE			
DICIOTTO			
DICIANNOVE			

Componi i numeri, come nell'esempio

1 da E 4 u → 14

1 da E 1 u → 11

1 da E 3 u → 13

1 da E 8 u → 18

1 da E 0 u → 10

1 da E 5 u → 15

1 da E 9 u → 19

1 da E 6 u → 16

1 da E 7 u → 17

1 da E 2 u → 12

primaria.org

Calcoli veloci

15 + 3 = 18

7 + 12 = 19

6 + 13 = 19

17 + 2 = 19

1 + 16 = 17

8 + 11 = 19

10 + 4 = 14

12 + 5 = 17

17 - 3 = 14

16 - 2 = 14

10 - 6 = 4

9 - 3 = 6

12 - 0 = 12

14 - 5 = 9

19 - 3 = 16

10 - 10 = 0

primaria.org

Bari 4 Maggio

Oggi è mercoledì

Calcoli con tre addendi

3 + 1 + 5 = 9

3 + 4 + 1 = 8

0 + 4 + 4 = 8

2 + 4 + 3 = 9

1 + 1 + 6 = 8

4 + 3 + 2 = 9

5 + 4 + 2 = 11

6 + 3 + 3 = 12

4 + 5 + 3 = 12

8 + 1 + 2 = 11

primaria.org

Problema

Sullo scaffale più alto della libreria ci sono 9 libri.

sullo scaffale più basso ce ne sono 3.

Quanti libri di differenza?

Risolvo

Dati

9 libri

3 libri

? differenza

con i numeri

9 - 3 = 6

con il diagramma

primaria.org

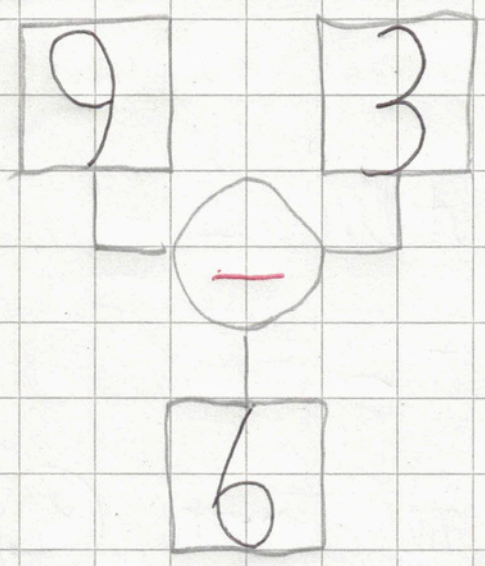

In colonna

da	u	
	9	−
	3	=
	6	

Risposta

La differenza è di 6 libri

primaria.org

SCHEDA N. NOME ..... CLASSE..... DATA .....

COMPLETA

10	MAGGIORE	MINORE	DI	15
20	MAGGIORE	MINORE	DI	11
13	MAGGIORE	MINORE	DI	18
17	MAGGIORE	MINORE	DI	7
11	MAGGIORE	MINORE	DI	10
18	MAGGIORE	MINORE	DI	11
16	MAGGIORE	MINORE	DI	20
14	MAGGIORE	MINORE	DI	19
8	MAGGIORE	MINORE	DI	9
10	MAGGIORE	MINORE	DI	2
4	MAGGIORE	MINORE	DI	5

Numera in ordine crescente

da 0 a 19

0 1 2 3 4 5 6 7 8 9

10 11 12 13 14 15

16 17 18 19

0 1 2 3 4 5 6 7 8 9

10 11 12 13 14 15

16 17 18 19

0 1 2 3 4 5 6 7 8 9

10 11 12 13 14 15

16 17 18 19

0 1 2 3 4 5 6 7 8 9

10 11 12 13 14 15

16 17 18 19

primaria.org

Numera in ordine decrescente

da 19 a 0

19 18 17 16 15 14

13 12 11 10 9 8 7 6

5 4 3 2 1 0

19 18 17 16 15 14

13 12 11 10 9 8 7 6

5 4 3 2 1 0

19 18 17 16 15 14

13 12 11 10 9 8 7 6

5 4 3 2 1 0

19 18 17 16 15 14

13 12 11 10 9 8 7 6

5 4 3 2 1 0

primaria.org